정사각형을 알아볼까요

공부한 날 월 일

1 알맞은 말에 ○표 하고 □ 안에 알맞은 말을 써넣으세요.

(한, 두, 네) 각이 모두 □이고 (한, 두, 네) 변의 길이가 모두 □ 사각형을 정사각형이라고 합니다.

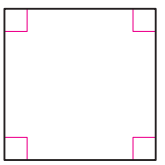

2 정사각형을 모두 찾아 기호를 써 보세요.

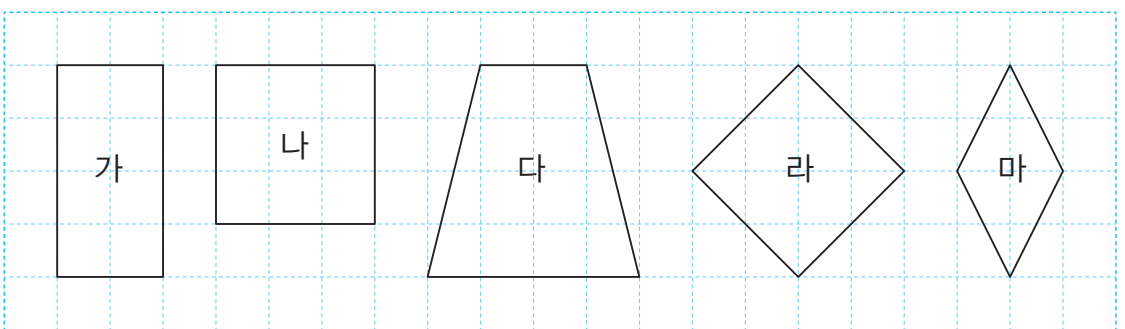

( )

3 점 종이에 크기가 다른 정사각형을 3개 그려 보세요.

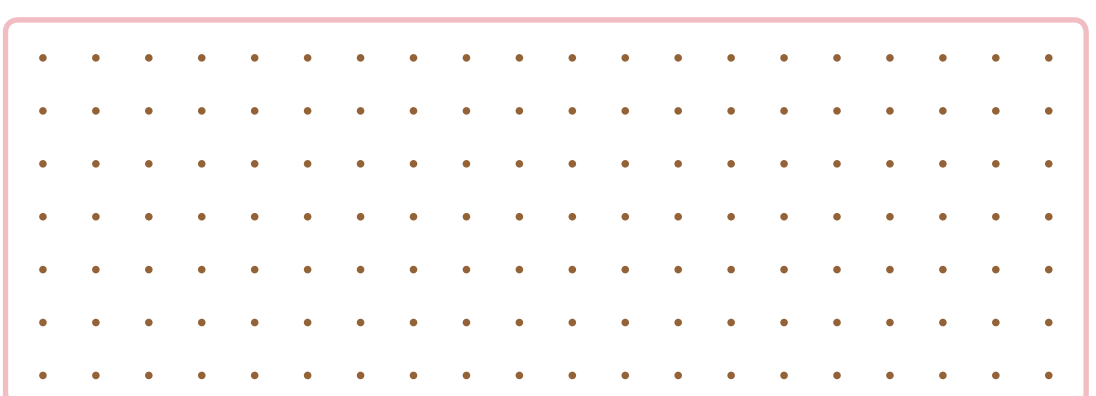

4 주어진 선분을 이용하여 직각 삼각자로 정사각형을 그려 보세요.

깜짝문제

㉠과 ㉡이 나타내는 값을 써 보세요.

4 9 8 9
㉠ ㉡

㉠: (　　), ㉡: (　　)

5 다음 도형이 정사각형이 아닌 이유를 써 보세요.



이유 _____

6 칠교판으로 새 모양을 만들었습니다. 새 모양에서 정사각형 모양을 모두 찾고 몇 개인지 써 보세요.



(　　)개