2 평면도형

공부할 준비가 되어 있나요

1 원을 모두 찾아 기호를 써 보세요.

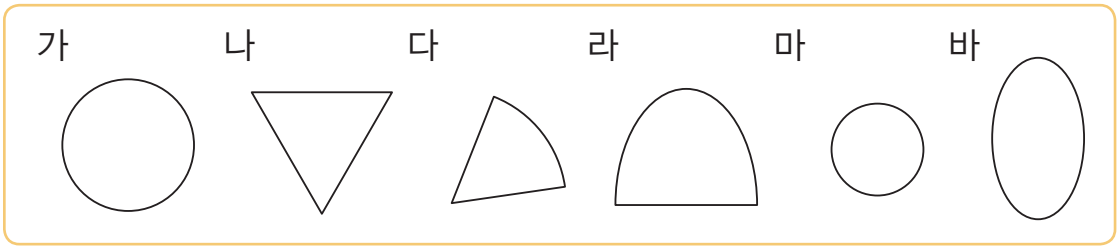

( )

2 조건에 맞는 도형을 점 종이에 다른 모양으로 2개 그려 보세요.

조건
- 꼭짓점이 3개입니다.
- 변이 3개입니다.



3 □ 안에 알맞은 말을 써넣으세요.

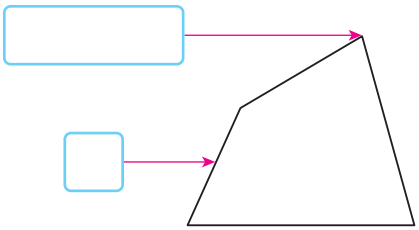

4 표를 완성해 보세요.

도형	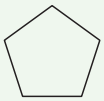	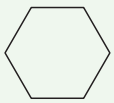
이름		
변의 수(개)		
꼭짓점의 수(개)		